Burgumer Doarpskwis 2022

Voor u verder gaat, even uw aandacht

Dit is het 'Kwisboek met antwoorden 2022' van de Burgumer Doapskwis 2022.

Verschillen met het Kwisboek zijn
- Paginanummering is afwijkend
- Tekst van de vragen in zwart
- Tekst van de antwoorden in blauw
- Tekst van de toelichting of bronvermelding in groen

Op dit document ligt een embargo tot 29 december 2022 00:00 uur

© SBB

Burgumer Doarpskwis 2022

Teamnummer:

Teamnaam:

Goede doel:

Teamcaptain:

Voordat u begint graag aandacht voor het volgende:

- Na de uitgifte kunt u het kwisboek ook vinden op de website
- Neem het kwisboek door en verdeel de vragen
- Ga na voor welke opdrachten u de deur uit moet
- Let bij uitvoering van de kwis op de veiligheid van uzelf en anderen
- Sommige opdrachten vergen tijd
- Opdracht 9.2 wordt uitgevoerd om 21:00 uur in het centrum
- Als u iets meer moet doen dan een antwoord geven dan is dat geen vraag maar een opdracht.
- Iedere goede vraag of opdracht is 10 punten.
- Een vraag niet beantwoorden geeft 0 punten een opdracht niet doen/niet inleveren verlaagt uw totaalscore met 50 punten
- Controleer voor inleveren of het gekozen goede doel de ANBI status heeft door te googelen "ANBI zoeken" Vergeet niet uw goede doel op te geven!!!!
- Lever het kwisboek compleet in (pagina's op volgorde)
- Inleveren uiterlijk 23:30 uur bij De Pleats

Voor na de inlevering van het kwisboek

- Het kwisboek met antwoorden is te vinden op de website
- Het team van de Burgumer Doarpskwis wenst u een goede jaarwisseling.
- Tot ziens op de uitslagenavond 7 januari 2023 20:00 uur in De Pleats.

Afgifte tijd	Inlevertijd	Controle			

Samenwerken loont….

De Stifting Burgumer Barren (SBB) is organisator van de
Burgumer Doarpskwis 2022
Bij de organisatie van de quiz hebben we financiële steun gevraagd en gekregen van fondsen en ondernemingen. Uitingen van fondsen en sponsoren zijn verweven in de beamerpresentaties op de uitslagenavond op 7 januari 2022 in De Pleats. De gouden en zilveren sponsoren hebben daarnaast een plekje in dit quizboek.

Zonder vrijwilligers geen Burgumer Doarpskwis.
Het ontwikkelen van de kwisvragen is een langdurig creatief proces gebleken waarbij onze denktank vele bronnen heeft geraadpleegd en vooral vele inwoners van Burgum die een deskundige inbreng geleverd hebben. Allen willen wij bedanken voor die belangeloze medewerking.

Lijst van Fondsen en stichtingen

Stichting Amelanderhof
Vereniging voor Dorpsbelangen Burgum
Stichting OPA (Oud Papier Actie Protestante Gemeente Burgum)
Stichting Ritske Boelema Gasthuis

Lijst van Sponsoren

Aventoer Burgum
Boekhandel Burgum
Bouwonderneming Brent de Haan
Brinksma Optiek
Burgum heeft meer /BAK
De Pleats
De Vries Wonen
Hoogland B.V.
It Stee fan Ôfskie
Jumbo Burgum
Optiek Freiberger
Plus Wolters
Spinnerz Communicatie
Van Wieren & Vellinga Adviseurs & Accountants
VDM Woningen
Webspriet
Zijlstra Maatwerk

De Burgumer Doarpskwis is mogelijk gemaakt door onderstaande fondsen en sponsoren

STICHTING AMELANDERHOF	RITSKE BOELEMA GASTHUIS	OPA
Vereniging voor Dorpsbelangen Burgum	De Pleats RESTAURANT - PARTYCENTRUM - CATERING	Aventoer Fun in Burgum!
DE VRIES WONEN	PLUS PLUS Wolters	Hoogland BV.
meubels en timmerwerk ZIJLSTRA	BRINKSMA OPTIEK OPTICIEN CONTACTLENSSPECIALIST	JUMBO Burgum
van Wieren & Vellinga ADVISEURS ACCOUNTANTS	BOEKHANDELBURGUM.nl	It Stee fan ôfskie Sjoerdtje de Haan Uitvaartzorg
spinnerz COMMUNICATIE	optiek Freiberger Kwaliteit voor beelden!	VDM WONINGEN

Burgumer Doarpskwis 2022

Categorie 1 Burgum nader bekeken

Vraag 1.1 Scholen

In welke panden aan de Schoolstraat is of was een school gehuisvest?
Noem de huisnummers van hoog naar laag.

Antwoorden

a. 105
b. 103
c. 101A
d. 101
e. 90

Toelichting:

Schoolstraat 105

Schoolstraat 103

Schoolstraat 101A

Schoolstraat 101

Schoolstraat 90

Vraag 1.2 Friese plaatsnamen

a. In welk jaar werd de naam Bergum gewijzigd in Burgum?
b. Op welke datum in welk jaar nam de gemeenteraad dit besluit?
c. Met hoeveel stemmen 'Voor' nam de gemeenteraad dit besluit?
d. Wie was toen Burgemeester van Tytsjerksteradiel?
e. Welke partij verwierf door de naamsverandering 4 raadszetels?

Antwoorden
a. 1989
b. 23 oktober 1986

c. 13
d. Jaap Mulder
e. Gemeentebelangen Tietjerksteradeel

Toelichting
Bron: Oud Burgum .Raadsbesluit Friese Plaatsnamen Tytsjerksteradiel. Op 23 oktober 1986 waren 13 stemmen voor en 7 tegen. Voor waren de raadsleden van de P.v.d.A Gosse Terpstra, Evert Castelijn, Rienk Smit, Christien Eizema-van der Wal, Julius van der Werf, Leen Kant en Jitse Krol.Tegen waren de raadsleden van het het CDA, Yde Haakma, Piet Bijman en Jaap Postma. Voor waren de raadsleden van het CDA Albert Sipma, Feike Hamstra, Martsje Andringa-Adema, Doeke Fokkema, Age Douma en Eeltje Wiersma. Tegen waren de raadsleden van de VVD, Wim Mertens, Jimke Wagenaar en Kitty Oppendijk van Veen-de Vries. Voor was het enige raadslid van de FNP, Theunis Piersma. Tegen was het enige raadslid van de RPF/GPV, Haiko Smid.

Vraag 1.3 Woonhuis Herre Kampen

a. Wat was de naam van het woonhuis van wethouder Herre Kampen?
b. Welk beroep had Herre Kampen voor zijn wethouderschap?
c. Waar werkte Herre Kampen voor zijn wethouderschap?
d. Wat was zijn laatste beroep?
e. Voor welke partij was hij wethouder?

Antwoorden
a. Sunny Home
b. Machinist
c. Zuivelfabriek Burgum
d. Journalist
e. PvdA

Vraag 1.4 Pand notaris Dantuma

a. Wat is de naam van het pand van notaris Dantuma?
b. Wat is de betekenis van deze naam?
c. Welk ander gebouw had vroeger dezelfde naam?
d. Welke invloedrijke familie heeft in beide panden gewoond?
e. Wat voor bijzonder gebouw hoort bij het pand?

Antwoorden
a. Philalaetheia
b. Vriend of vrienden van de Waarheid
c. Glinstra State
d. De familie Ferf
e. Het koetshuis of de Grafkelder

Vraag 1.5 Kolfbaan

a. Wat is een Kolfbaan?
b. Waar was de Kolfbaan oorspronkelijk gelegen in Burgum?

Antwoorden
a. Baan voor beoefening van de kolfsport
b. Vlakbij Herberg Huis ter Heide (zie www.Delpher kolfbaan Bergum)

Vraag 1.6 Van Sminiaplein

a. Welk gebouw in de Schoolstraat heeft ooit de functie van gemeentesecretarie gehad?
b. Wat voor kunstwerk komt er op het Van Sminiaplein?
c. Op welke datum was er een vergadering voor de inwoners van Burgum over dit kunstwerk ?
d. Hoeveel belangstellenden waren op die bijeenkomst aanwezig?
e. Heb ik met de fiets aan de hand op de Hillamaweg/Tsj. Geartsstrjitte voorrang op dit kruispunt?

Antwoorden
a. 't Roodhert
b De Blauwe Hond
c. 17 september 2019
d. twee
e. Nee

Vraag 1.7 Doorkijkje

Door welk raam kijk ik?

a.

b.

c.

d.

e.

Antwoorden

a. Hema
b. Beerda
c. ’t Roodhert
d. Lokaal 9
e. ’t Luifeltje

Vraag 1.8 Bordspel

Foto 1.

Foto 2.



Foto 3.

a. Foto 1. is gemaakt in 2020. Hoeveel nieuwe vermeldingen zijn op het huidige bord te vinden tov de foto uit 2020.
b. Hoeveel meer lege velden zijn er op het bord van 2022 tov 2020?
c. In welke straat vind je het bord van foto 1.?
d. Wat is de naam van dit bedrijvencomplex?
e. Welk bewegingscentrum is hier gevestigd?
f. Op de begane grond in dit gebouw is een kantoorruimte te huur. Welke is dit?
g. Foto 2. Welke (verwijderde) fietsroute-nummer staat er op het bord?
h. Foto 2. In welke straat staat dit bord?
i. Welke looproute aan deze wegwijzer is op foto 3. niet te zien?
j. Door hoeveel hekjes ben je gegaan als je 1 meter voor deze wegwijzer staat?

Antwoorden

a. 5
Virtutec - LEF Friesland - oa mkb Fryslan - de Ontwikkel Uitblinkers – wakker media
b. 1
c. Prins Bernhardstraat
d. Maxima Centrum
e. Reset
f. Ruimte A9 ofwel de ruimte links van de ingang Bron: website van Maxima Centrum
g. 66
h. Nieuwstad
i. De route naar de vogelkijkhut.
De leesbaarheid van de route Duorpskuierke is dermate slecht dat de vraagstelling in acht genomen ook het antwoord 'Duorpskuierke" goedgekeurd is
j. 2 Dit is een instinker want er staat een hekje net voor de wegwijzer, die dus niet meegerekend moet worden.

Bord 2020

Bord 2022

Vraag 1.9 Huizenjacht

Er valt in Burgum veel te zien en te ontdekken. Hebben jullie oog voor detail?
In welke straat staan deze woningen met naam?

a.

b.

c.

d.

GRACE
COTTAGE
16

e.

Shangri-la

f.

Little Palmtree Cottage
28

g.

Smûk-Stee

h.

i.

j.

Antwoorden

a. Nieuwstad
b. Beukenkamp
c. Tussendijken
d. Pater Doesburgloane
e. Kuormakkerstrjitte
f. De Boek
g. Tussendijken
h. Nieuwstad
i. Langelaan
j. De Bjirk

Vraag 1.10 Straten

Wat is de overeenkomst tussen de volgende straten? Helaas zijn de klinkers weggevallen.

a. htsgrs
b. krmkkrs
c. kwkrs
d. lrlrs
e. mkrs

Antwoord

beroepen / ambachten

Toelichting

Dit is een instinker, Leuk dat de straatnamen ingevuld worden maar het antwoord is

Beroepen / ambachten

a. Houtsagers(strjitte)
b. Kuormakkers(strjitte)
c. Kwekers(strjitte)
d. Learloaijers(strjitte)
e. Ymkers(strjitte)

Categorie 2 Nieuws en oud-nieuws

Vraag 2.1 Nieuwsflits

Over welke nieuwsberichten gaan onderstaande foto's en in welk jaar was dit?

Foto 1

Foto 2

Foto 3

Foto 4

Foto 5

Antwoorden

a. Foto 1. Nieuws. Leonie Bentveld uit Burgum is Nederlands kampioen veldrijden
b. Foto 1. Jaar 2022
c. Foto 2. Nieuws. De nieuwe recyclewinkel van stichting Omrin Estafette in Burgum organiseert ludieke inbrengactie met een knipoog naar de veelbesproken 'Blauwe Hond'.
d. Foto 2. Jaar 2021
e. Foto 3.Nieuws. Stemacteur Feije van der Meer stopt na 25 jaar met het programma Bear Boeloe
f. Foto 3. Jaar 2020
g. Foto 4. Nieuws. Discotheek Quatrebras in Noardburgum is verkocht aan de Burgumer ondernemer Jaap Holwerda. YouTuber Jordy ter Horst bezoekt verlaten

panden en heeft een vlog over zijn bezoek in Quatrebras geüpload om zo iedereen de kans te bieden om nog even binnen te kijken.

h. Foto 5. Jaar 2021

i. Foto 5. Nieuws. WMR uit Rinsumageast is begonnen met de sloop van het voormalige reisbureau in Burgum op de hoek van het Van Sminiaplein en de Tsjibbe Geartsstrjitte.

j. Foto 5. Jaar 2021

Vraag 2.2 Helden

Helden kennen we natuurlijk op vele vlakken, waaronder de Burgumer brandweerlieden. Zij zetten zich met hart en ziel in voor onze veiligheid.
Hieronder zie je een verzameling branden in Burgum uit het verre en nabije verleden. Welke branden zien we hier en in welk jaar woedde het vuur?

Foto 1

Foto 2

Foto 3

Foto 4

Foto 5

Antwoorden

a. Foto 1. Unit Asielzoekerscentrum
b. Foto 1. Jaar 2003
c. Foto 2. Expert Meijer
d. Foto 2. Jaar 2020
e. Foto 3. Opslagloods aan de Zomerweg/ About Hydraulic
f. Foto 3. Jaar 2019
g. Foto 4. Sporthal Westermar
h. Foto 4. Jaar 2017
i. Foto 5. Grafkistenfabriek Hoogland
J. Foto 5. Jaar 2014

Vraag 2.3 Virussen

Virussen... wat kunnen ze ontzettend veel schade aanrichten. Maar als je ze door een microscoop bekijkt dan sta je versteld hoe gevarieerd en mooi virussen eruit kunnen zien.

Met het Covid-19 oftewel het Coronavirus zijn we onderhand wel bekend en vooral klaar mee, maar weet je ook welke andere virussoorten hieronder afgebeeld zijn? Schrijf de naam in het vak erachter.

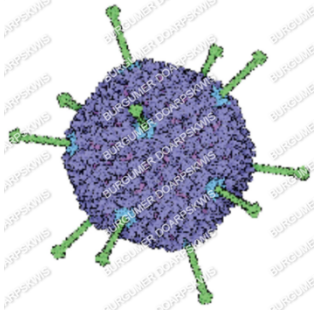 a.	

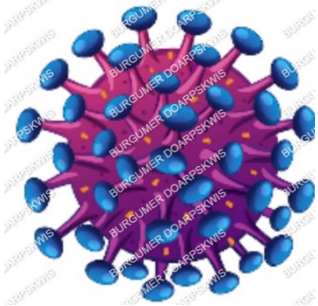 b.	
 c.	
d.	
e.	

Antwoorden

a. Adenovirus
b. HIV (Human Immunodeficiency virus)
c. HPV (Humaan Papillomavirus)
d. Ebola
e. Bacteriofaag/Bacteriophage

Vraag 2.4 Krantenkoppen

Zoals een goede Burgumer betaamt, hou je natuurlijk het lokale nieuws goed bij.
Welk woord staat er in de krantenkop onder de rode balk?

a.

De vijf leerlingen van OSG Singelland Burgum die de prijs voor de mooiste baan hebben gewonnen. (Foto: ingezonden)

Leerlingen Singelland Burgum winnen [redacted] challenge

b.

De struiken met het spinsel, veroorzaakt door de larven van de stippelmot. (Foto: Betty Kooistra)

[redacted] in Wetter en Willepark Burgum

c.

Mannen staan voor deur politiebureau Burgum om diefstal [redacted] te bekennen (die ze al terug hadden gebracht en waarvoor ze sorry hebben gezegd)

d.

Waarom driehonderd [redacted] in Burgum een plastic jas krijgen

e.

Oude foto van de Lageweg in Burgum. (Foto: ingezonden)

[redacted] over de Lageweg in Burgum

Antwoorden

a. knikkerbaan
b. spookbosjes
c. Buitenboordmotor
d. kersenbomen
e. Simmerjûnkuier

Toelichting

a.

De vijf leerlingen van OSG Singelland Burgum die de prijs voor de mooiste baan hebben gewonnen. (Foto: ingezonden)

Leerlingen Singelland Burgum winnen knikkerbaan challenge

b.

De struiken met het spinsel, veroorzaakt door de larven van de stippelmot. (Foto: Betty Kooistra)

Spookbosjes in Wetter en Willepark Burgum

c.

Mannen staan voor deur politiebureau Burgum om diefstal buitenboordmotor te bekennen (die ze al terug hadden gebracht en waarvoor ze sorry hebben gezegd)

d.

Waarom driehonderd kersenbomen in Burgum een plastic jas krijgen

e.

Oude foto van de Lageweg in Burgum. (Foto: ingezonden)

'Simmerjûnkuier' over de Lageweg in Burgum

Vraag 2.5 Met hetzelfde gemak, gooi je het in de afvalbak

Afvalscheiding wordt steeds populairder, veel mensen scheiden glas, papier en gft. Door afval te scheiden, blijft er minder gewoon huisvuil of restafval over. Dat scheelt milieubelasting, want afvalverwerking kost energie en zorgt voor de uitstoot van broeikasgassen, wat leidt tot versterking van het broeikaseffect.
Maar doen we het ook wel echt goed?
Wat hoort in welke bak? Zet een kruis bij de juiste container.

	Groen afval	Papier	Restafval

Antwoorden			
	Groen afval	Papier	Restafval
		X	
	X		
	X		
	X		
			X
			X
	X		X
		X	
			X
	X		

Er is geen eenduidigheid of het theezakje bj het restafval of in de GFT bak moet om die reden zijn beide antwoorden goed gerekend

Vraag 2.6 Coronagolf 2020

a. Op welke datum is in Tytsjerksteradiel de "coronatoespraak" door Jeroen Gebben gehouden?
b. Hoeveel genodigden mochten er in de raadszaal bij een "corona-huwelijk" na 1 juli 2020?
c. Wanneer was de avond 4-daagse in 2020?
d. Hoeveel coronaboetes werden er tot 25 juli 2020 in Tytsjerksteradiel uitgeschreven?
e. Hoeveel sterfgevallen waren er op 19 juli 2020 in Fryslân?

Antwoorden
a. 17 maart 2020
b. 30 personen
c. Vanaf 15 juni tot 31 augustus 2020
d. nul
e. 69 sterf gevallen

Toelichting
Bronnen: website gemeente T'diel
website LC
website GGD
b. Het antwoord 27 ontstaat indien de redenatie is maximaal 30 personen, bruidspaar trouwambtenaar en 27 genodigden.

Vraag 2.7 Wetter & Wille

a. De brandweer is afgelopen zomer uitgerukt in het Wetter en Willepark.
Wat deed ze daar?
b. Wat werd er na twee jaar eindelijk weer gehouden in het Wetter en Willepark?
c. Waarvoor moet je € 0,50 betalen in het Wetter en Willepark?
d. Voor welk event in 2020 moest je je (klap)stoel en/of picknickkleed meenemen naar het Wetter en Willepark?
e. Wat is er meerdere malen gevonden op het strandje in het Wetter en Willepark?

Antwoorden
a. Afkoeling bieden
b. Buurten volleybal
c. Een toiletbezoek
d. Openluchtdienst
e. Glasscherven

Vraag 2.8 Titel

Welke titel heeft gemeente Tytsjerksteradiel in 2022 behaald?

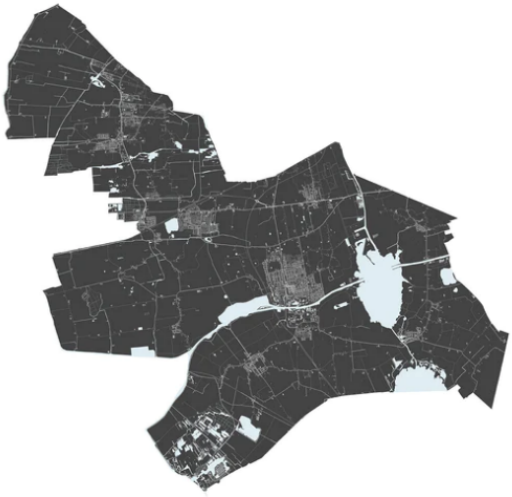

Antwoord
Rustigste gemeente van Nederland

Toelichting
Tytsjerksteradiel is de rustigste gemeente van Nederland.
(Dat blijkt uit onderzoek van FBTO. De inwoners hebben nauwelijks te maken met criminaliteit en geluidsoverlast van bijvoorbeeld buren, auto's en vliegverkeer. Nergens in Nederland wordt - gemiddeld gezien - zo weinig overlast gemeld én ervaren als in deze noordelijke provincie).
Bron: Wâldnet en FBTO

Vraag 2.9 Koning voetbal

a. Welke wereldberoemde goal werd in 1985 gemaakt door een voetballer die nu in Burgum woont?
b. Wat was volgens de Telegraaf het mooiste wat de bovenstaande voetballer kenmerkte?
c. Met hoeveel heeft een Burgumer ex-profvoetballer ooit van Real Madrid gewonnen?
d. Welke bekende ex-trainer van v.v. Bergum liep ooit stage bij Manchester City?
e. In welk jaar kreeg Hedzer Jongboom uit Burgum een contract bij FC Twente?

Antwoorden
a. Oscar Zijlstra
b. Zijn snor
c. 2-1
d. Arent Bekhof
e. 1977

Vraag 2.10 Boekenwurm

a. Welk boek, mede geschreven door een Burgumer auteur, heeft voor veel ophef gezorgd in het buitenland?
b. Wat is het onderwerp dat voor deze ophef zorgde?

Antwoorden
a. Koning en koning {geschreven door Linda de Haan (en Stern Nijland)}
b. Seksuele diversiteit

Categorie 3 Kunst en cultuur

Vraag 3.1 Legende bloem

a. Welke legende/mearke van Burgum verwijst naar een bloem?
b. Hoe heet de boerderij in het verhaal?
c. Wat moest er worden gebouwd?
d. Waarom ging dat niet door?
e. Wat is de Nederlandse naam van deze bloem?

Antwoorden
a. Juffer Lys
b. Buitenrust
c. een kapel
d. De dochter verdronk voordat er gebouwd werd
e. Hagewinde of Nachtkoekoeksbloem

Toelichting
Door het Van Meertens Instituut wordt hagewinde genoemd maar door wetenschappers wordt de nachtkoekoeksbloem aangewezen als de Juffer Lys bloem.

Vraag 3.2 Iepenloftspul

a. In welk jaar werd het Iepenloftspul voor het eerst opgevoerd?
b. Noem de twee Friese romans die zich afspeelden in Tytsjerksteradiel en die door het "Iepenloft" van Burgum voor het voetlicht zijn gebracht.
c. Wie waren de schrijvers van deze twee romans?
d. Wie waren de regisseurs van deze stukken?
e. Noem vier locaties waar het Iepenloftspul van Burgum opgevoerd werd.

Antwoorden

a. 1945
b. Marije/Marijke & It Gouden ûlebuord
c. Abe Brouwer & Gryt Spaanderman-Wielinga
d. Tobias Piron & Romke de Leeuw
e. De Markt & De Pleats/Openluchttheater & Aquaduct Centrale As & Zuivelfabriek

Vraag 3.3 Dichters

a. Wie waren de dichters die woonden in het pand van de voormalige drukkerij "De Motor"?
b. Welke dichter woonde in het pand "De Volle Hand"?
c. Wie woont nu op deze plek (zie foto) van de dichter/schrijver/drukker?
d. Hoe heetten de zonen van deze Burgumer dichter/schrijver/drukker?
e. Welk meisje woonachtig aan de Burgumerdam werd in een liedje bezongen?

Antwoorden

a. Wigger Arnoldus van der Meulen & Willem Keuning
b. Harmen Sytstra
c. Optiek Freiberger
d. Anne, Geert, Pieter, Sophius, Wigger en Willem.
e. Wytske

Toelichting e.

It famke van de Burgumer Daem.
Op Burgumerdam Der wennetje man faem
Ja, minsten, der wennet man Wytske
Fake fris ik mei har, och toe, sis ik mar
Och toe, jou nou Ien lytske!
Falderarire falderara
Falderarire, trialderale,
Falderarire, falderarire
Earst vrije, mar dan erkers tsiere.

antwoorden

a. _____

b. _____

c. _____

d. _____

e. _____

Vraag 3.4 Kunstwerk

Opm. In deze afbeelding van het kunstwerk is de tekst op het witte vlak verwijderd.

a. Welke in Burgum geboren kunstenaar heeft dit kunstwerk gemaakt?
b. Waar hangt het?

Antwoorden

a. Auke de Vries
b. In het gebouw van de tweede kamer in Den Haag

Vraag 3.5 Wie lijkt op wie?

Welke inwoner van Burgum wordt met Rembrandt vergeleken?

Antwoord
Schilder Jan van der Kooi

Toelichting
NIEUWSUUR · BINNENLAND · 07-09-2019, 15:42
Schilder Jan van der Kooi is 'de nieuwe Rembrandt'

Vraag 3.6 Verhalenverteller

Dam Jaarsma uit Eastermar verzamelde volksverhalen.
a. Welke sterke man uit Sumar kon een varken van 400 pond optillen?
b. Waar in Burgum woonde deze sterke man later?

Antwoorden
a. Teake van der Meer
b. op de Burgumerdam

Toelichting
Nederlandse VolksverhalenBank
Item CJ100005
Hoofdtekst
De van der Meer's fan Sumar wienen tige sterk. Dêr hienen jy Folkert, Melle, Sjoerd, Sweitse, Taeke, it wie allegearre folk dat hiel hwat yn 'e bouten hie. De potskippers neamden se har. Mar 't wie eins fiskersfolk. Ien der fan hat 27 jier by ús op 'e boat fard; dat wie Taeke. Dy hie letter aeihandel yn Burgum.
Op in kear moesten wy op Oldenburg in baerch fan goed 400 poun lade. In stik of fjouwer wienen der mei dwaende, mar as in baerch it goed yn 'e kant set, falt it net ta. Se rêdden it net op. Taeke stie der by to gnyskjen, mar stuts net in hân út.
Doe sei 'k tsjin him: "Sil 't ek ris wêze?" Doe sloech Taeke syn beide greate hannen om 'e baerch en hâldde it beest foar 't boarst en sa tilde er him pûr-allinne op 'e boat.
Vertaling
De familie Van der Meer was heel sterk. Ze werden wel potschippers genoemd, hoewel het een vissersfamilie was. Een van hen, Taeke, heeft 27 jaar bij ons op de boot gevaren. We moesten eens een varken van 400 pond laden. Vier mannen waren er mee bezig, maar het lukte niet. Taeke stond er maar wat bij te grijnzen. Toen hij daarop werd aangesproken pakte hij met zijn blote handen het hele varken op en zette het zo op de boot.

Vraag 3.7 Dwerskop

a. Wie heeft het verhaal “De Dwerskop” geschreven?
b. Wie heeft het bewerkt voor het Iepenloftspul?

Antwoorden
a. Bonne Stienstra (uit Gytsjerk)

b. Pieter Stellingwerf

Toelichting
Kees Botman en Pieter Stellingwerf waren medewerkers van het BUOG hetgeen staat voor Bedenkers en Uitvoerders van Ongewone Gebeurtenissen

Vraag 3.8 Monumentaal object

a. Welk Burgumer monumentaal object werd misbruikt om de Germaanse nazileer kracht bij te zetten?
b. Hoe heette de "foute" professor die dit beweerde?

Antwoorden
a. De Poppestien
b. Hermann Felix Wirth
ook wel genoemd Herman Wirth Roeper Bosch
of Professor Wirth

Vraag 3.9: Friese recepten

a. Je koelkast is bijna leeg, maar je hebt de volgende dingen nog liggen. Welk Fries recept kun je hiervan maken?

- Kalfslappen
- Kalfstong
- Kalfsnier
- Kalfslever
- Sjalot
- Tomaat
- Boter
- Foelie
- Azijn
- Peper
- Zout

b. Voor de zoetekauwen onder ons: wat kun je bakken als onderstaande ingrediënten in je keukenkastje staan?

- Basterdsuiker
- Bloem
- Hazelnoten
- Eieren
- Boter
- Kaneel
- Gember
- Anijszaad
- Zout

Antwoorden

a. Snorrepotsje
b. Fryske dûmkes

Vraag 3.10 Eetcultuur

Welke 5 cryptische horecagelegenheden in Burgum zijn in deze foto's verborgen?

Foto a.

Foto b.

Foto c.

Foto d.

Foto e.

Antwoorden

a. De Passage
b. De Chinese Muur
c. (voormalig) Reti
d. Kofje en mear
e. Balkan eetcafe Sarajevo

Categorie 4 Natuur

Vraag 4.1 Locatie

a. Geef de coördinaten van de plek waar het bouwwerk, dat u op de foto ziet, zich bevindt. Geef de coördinaten in graden en in 4 decimalen nauwkeurig.
b. Hoe noemen we zo'n bouwwerk?
c. Ten behoeve van welk dier is dit gebouwd?
d. In welke maanden is dit dier hier te vinden?
e. Wat is de Latijnse naam van dit dier?

Antwoorden

a. N 53,1910-53,1930
O 06,0120-06,0130
(afhankelijk van welk deel van de muur gekozen wordt)
b. Zwaluwmuur/Zwaluwoever
c. Oeverzwaluw
d. Maart tot eind oktober
e. Riparia riparia

Toelichting
De coördinaten van een plaats ophalen

1. Open de Google Maps-app. op uw Android-telefoon of -tablet.
2. Tik op de kaart op een gebied dat geen label heeft en houd dit vast. Er wordt een rode speld geplaatst.
3. U ziet de coördinaten in het zoekvak bovenaan.

of

De coördinaten van een plaats ophalen

1. Open de Google Maps-app. op uw iPhone of iPad.
2. Tik op de kaart op een gebied dat geen label heeft en houd dit vast. Er wordt een rode speld geplaatst.
3. Tik onderaan op Geplaatste speld. U ziet nu de coördinaten.

Vraag 4.2 Het perfecte plaatje

Burgum is rijk aan natuur.
Elk seizoen heeft hier zijn charme!
Deze mooie plaatjes zijn geschoten in Burgum, herken jij waar?

a.

b.

c.

d.

e.

Antwoorden

a. wandelpad naast de centrale as (tussen LeeuwerikHoeve en Wettermunt)
b. Wetter en Willepark
c. Kerklaan
d. Syl (Nieuwstad)
e. Langelaan (Pingo ruïne)

Vraag 4.3 Wâldbeantsjes

a. Wanneer moeten de wâldbeantsjes, volgens Burgumer gebruik, gepoot worden?
b. En wanneer moeten ze, eveneens volgens Burgumer gebruik, geoogst ?

Antwoorden

a. Poten: eerste Burgumermerk (3e maandag van mei)
b. Oogsten: laatste Burgumermerk (3e maandag van september)
c.

Vraag 4.4 Als paddenstoelen uit de grond schieten

De ANWB-paddenstoelen, ken je ze nog? Al een eeuw lang zorgen ze ervoor dat fietsers en voetgangers niet verdwalen. Ze verdwijnen steeds meer uit de natuur en worden vervangen door het fietsknooppuntnetwerk al dan niet door allerhande routeplanners.
Zoek de paddenstoel op onderstaande foto en zoek uit:
Hoeveel meter moet ik fietsen als ik vanaf dit punt naar Burgum fiets?

Antwoord

900 meter

Toelichting

0,9 km staat er op de paddenstoel, Menno van Coehoornweg > fietspad Syl

Vraag 4.5 Kijk eens naar het vogeltje

De vogelkijkhut van Burgum heeft 8 doorkijk luikjes. Door elk luikje is een foto gemaakt.
Aan jullie de taak; welke foto is door welk luikje gemaakt?
Vul onder e. in welk bedrijf deze vogelkijkhut heeft gemaakt.



Foto serie a.

Foto serie b.

Foto serie c.

Foto serie d.

Antwoorden

a. serie a door luikje 1 en luikje 2

b. serie b door luikje 3 en luikje 4

c. serie c door luikje 5 en luikje 6

d. serie d door luikje 7 en luikje 8

e. Van der Wal Hout

Vraag 4.6 De bloemetjes buiten zetten

We hebben allemaal wel eens gehoord van Vingerhoedskruid en Brave Hendrik. Kent u van deze bloemen de Nederlandse naam?

a.	b.
c.	d.
e.	

Antwoorden

a. Geel stinkdier

b. Kruidje roer me niet

c. Apenhandboom

d. Vlijtig Liesje

e. Schildersverdriet / Steenbreek / hoe langer hoe liever

Vraag 4.7 Nesteldrang

Veel mensen zorgen goed voor onze gevleugelde vrienden en hangen nestkastjes voor ze op. Maar weten jullie wel dat elke soort zijn eigen model nestkastje heeft?
Bij welke soort horen onderstaande nestkastjes?

a.

b.

c.

d.

e.

f.

g.

h.

i.

j.

Antwoorden

a. Steenuil
b. (huis)Zwaluw
c. Vlinder
d. Bij
e. Vleermuis
f. Bosuil
g. Boomkruiper/boomklever
h. IJsvogel
i. Torenvalk
j. Roodborst/winterkoning

Vraag 4.8 Dit is andere thee

Kruiden- en specerijen thee is niet alleen lekker, sommige soorten zijn ook goed voor je gezondheid. Deze theeën worden al honderden jaren ingezet als natuurlijke remedies tegen allerlei kwaaltjes.
In jullie tas zitten 5 theezakjes. Breng wat water aan de kook en maak van elk zakje een heerlijke kop thee. Welke 5 smaken proef je? Zet ze op alfabetische volgorde.

Antwoorden

a. Brandnetel
b. Gember
c. Kamille
d. Munt
e. Zoethout

Vraag 4.9 Is het eitje d'r al?

a. Welke Burgemeester van Tytsjerksteradiel wilde als eerste geen éérste kievitsei in ontvangst nemen?
b. Welke Burgumer heeft het 'eerste kievitsei' meerdere keren gevonden?
c. Mag iemand op zijn 12e verjaardag zoeken zonder nazorgpas?
d. De polsstok was vroeger een belangrijk hulpmiddel bij het zoeken naar eieren. Welk hulpmiddel wordt tegenwoordig gebruikt om eieren op te sporen tijdens de nazorg?
e. Aan wie is het eerste kievitsei in 2021 van Tytsjerksteradiel opgedragen?

Antwoorden

a. Huyssen van Kattendijke
b. Johannes Buruma
c. Nee {Zodra je twaalf geworden bent niet meer…}
d. Drone
e. Hindrik Nijhuis ofwel de zieke zoekmaat van de vinder

Vraag 4.10 Kom uit je schelp!

Wie heeft er nooit schelpen gezocht op het strand? Die prachtige vormen en kleuren hebben op ons een enorme aantrekkingskracht. Wat de meeste gemeen hebben zijn hun grappige namen. Daarom de vraag, weet jij hoe deze schelpen heten? We zoeken de Nederlandse benamingen.

a.

b.

c.

d.

e.

Antwoorden

a. Nonnetje
b. (Bonte) Mantel
c. Wenteltrapje
d. (grote) Hoorn
e. Zaagje

Categorie 5 Puzzels

Vraag 5.1 Cijferreeksen

Vul het eerstvolgende getal van onderstaande reeksen aan

a.	2	3	5	9	….
b.	2	3	8	63	….
c.	2	6	14	30	….
d.	2	3	5	7	….
e.	2	4	7	11	….

Antwoorden:

a.	17
b.	3968
c.	62
d.	11
e.	16

Toelichting:

Reeks:	2	3	5	9	17	(getal x 2) - 1
	2	3	8	63	3968	(getal x getal) - 1
	2	6	14	30	62	(getal + 1) x 2
	2	3	5	7	11	alleen deelbaar door zichzelf en 1
	2	4	7	11	16	(((getal +2)+3)+4)

Vraag 5.2 Zoekplaatje

Vind de 10 verborgen voorwerpen in het plaatje en kleur deze in.



Antwoord


tandenborstel
open boek
sleutel
eekhoorn
potlood
wortel
tang
schoen
haai
zeilboot

Vraag 5.3 Cijferpuzzel

Vul de lege plekken in en tel de ingevulde getallen bij elkaar op.

3	+		-	2	+		=	9
+		+		+		+		
	+	3	-		-	1	=	2
+		+		+		-		
2	+		-	3	+		=	7
=		-		=		+		
9	-	6	+		-	3	=	9
		=				=		
10	-		+		-	5	=	10

Antwoord
46
Toelichting

3	+	3	-	2	+	5	=	9
+		+		+		+		
4	+	3	-	4	-	1	=	2
+		+		+		-		
2	+	4	-	3	+	4	=	7
=		-		=		+		
9	-	6	+	9	-	3	=	9
		=				=		
10	-	4	+	9	-	5	=	10

3+5+4+4+4+4+9+4+9=46

Vraag 5.4 Sterrenkundige termen

Vul onderstaande dialogen aan met een sterrenkundige term:

a. Studenten:
Ik heb al mijn vakken laten vallen en ook geen bijbaan meer.
Ja, maar jeetje, wat is dit een .....

b. Deelnemers eetwedstrijd:
Ga je echt vijftig hotdogs in tien minuten eten?
Moet lukken, als ik volgens .....

c. Boeren tijdens onweer:
Dat kalf blijft lekker rustig hè?
Ja, maar jeetje, wat is die .....

d. Limousine chauffeurs:
Wat duurt dat lang, ik verveel me de pleuris.
Ja, dat krijg je als je op.....

e. Dokter en patiënt:
Deed de prik lang pijn?
Niet lang, maar het was wel.....

Antwoorden

a. Lichtjaar
b. Planeet
c. Big bang
d. Sterrenwacht
e. Evenaar

Vraag 5.5 IJzersterke logo's

Logo's zijn overal. Sommige zie je zo vaak dat je ze met je ogen dicht kunt uittekenen. Of toch niet? Herken jij welke merk bij welke letter hoort?

1. 2. 3. 4. 5. 6. 7. 8. 9. 10.

Antwoorden

a. DHL
b. o.b.
c. Coca-Cola
d. Redbull
e. Pampers
f. Sony
g. Ikea
h. WE Fashion
i. Walt Disney
j. Tony's Chocolonely

Vraag 5.6 Nullen en enen

Vul de lege hokjes in.
Elke rij en elke kolom bevat drie nullen en drie enen.
Er mogen niet meer dan twee nullen of twee enen naast of boven elkaar staan.
Elke rij is anders dan alle andere rijen,
en elke kolom is anders dan alle andere kolommen.

				1	
	0			1	
0					
1					1
			0		
	1	1			

Antwoord

1	0	0	1	1	0
1	0	1	0	1	0
0	1	0	1	0	1
1	0	0	1	0	1
0	1	1	0	1	0
0	1	1	0	0	1

Vraag 5.7 Emoji's

Welke Friese plaatsnamen worden hieronder uitgebeeld in emoji's?

a.

b.

c.

d.

e.

f.

g.

h.

i.

j.

Antwoorden

a. Koudum
b. Drachten
c. Buren

d. Woudsend
e. Goënga
f. Buitenpost
g. Drogeham
h. Sneek
i. Donkerbroek
j. Lippenhuizen

Vraag 5.8 Bekende Nobelprijs winnaar

Een achttienjarige jongen wordt van de Utrechtse Ambachtsschool getrapt en wint een paar decennia later als een van de eersten een Nobelprijs.

Wie was deze werktuigbouwkundig ingenieur?

Antwoord
Wilhelm Conrad Röntgen
Toelichting
Röntgen koos na zijn opleiding tot werktuigbouwkundig ingenieur in Zwitserland voor een carrière in de natuurkunde.
Röntgen woonde op jonge leeftijd in Apeldoorn en ging vervolgens in Utrecht naar de ambachtsschool. Hij werd van deze school getrapt omdat hij niet wilde vertellen wie de spottekening had gemaakt waarmee een leraar hem had betrapt.

Vraag 5.9 Knikkersom

Bas heeft 78 knikkers, verdeeld over de kleuren rood, wit en blauw. Hij heeft twee keer zoveel blauwe als rode knikkers.
Bas geeft de helft van de rode knikkers weg. Ook geeft hij een derde van de witte knikkers en evenveel blauwe knikkers weg.
Hij houdt 47 knikkers over.
Vraag: Hoeveel knikkers had en heeft Bas van elke kleur?

Antwoord
Bas begon met 14 rode, 36 witte en 28 blauwe knikkers.
Hij eindigt met 7 rode, 24 witte en 16 blauwe knikkers.

Toelichting
Noem het oorspronkelijke aantal knikkers van elke kleur R, B, en W
Dan geldt voor de beginsituatie: $R + W = B = 78$
$B = 2R$

Voor de eindsituatie geldt: $1/2\ R + 2/3\ W + (B - 1/3W) = 47$
Dit zijn drie vergelijkingen met drie onbekenden.
Oplossen kan bijvoorbeeld door de eerste twee vergelijkingen te combineren tot $W = 78 - 3R$.
Dat invullen in de derde vergelijking (samen met $B = 2R$) geeft
$1/2\ R + 2/3\ (78 - 3R + 2R - 1/\ (78 - 3R) = 47$
Dat leidt tot $R = 14$.
De eerste twee vergelijkingen geven dan $B = 28$ en $W = 36$.

Vraag 5.10 Woordzoeker

Los de woordzoeker op. De overgebleven letters vormen een zin.

S	A	U	N	A	V	E	N	T	O	E	R	M	S	K	K
T	U	O	R	R	E	B	O	U	T	N	Q	I	C	E	N
B	I	B	L	I	O	T	H	E	E	K	U	D	H	R	A
E	S	E	P	T	U	R	P	I	F	H	I	Z	O	K	T
W	T	T	K	J	E	H	T	R	E	B	Z	O	L	E	U
E	E	R	E	G	U	S	A	T	R	L	V	M	E	N	U
C	A	T	D	R	E	M	N	G	F	IJ	O	E	N	L	R
M	E	U	T	P	R	E	B	Z	S	E	G	R	C	E	O
P	I	N	P	E	E	E	S	O	T	N	E	M	E	E	G
L	O	O	T	M	R	E	N	G	R	H	L	A	N	C	G
U	P	S	E	R	I	S	U	W	A	O	K	R	T	H	E
S	E	G	S	O	U	R	T	O	A	F	IJ	K	R	K	G
W	D	L	P	W	B	M	O	I	T	C	K	T	A	A	E
B	E	R	C	H	H	I	E	M	N	R	H	K	L	M	R
S	I	N	G	E	L	L	A	N	D	S	U	T	E	P	S
A	R	K	E	S	C	H	O	O	L	S	T	R	A	A	T

ARKE
AVENTOER
BERCHHIEM
BIBLIOTHEEK
BLIJENHOF
BRUG
CENTRALE
CENTRUM
ELS
FERFSTRAAT
GEMEENTEHUIS
JUMBO
KERKEN
LEECHKAMP
LIUDGER
MARKT
MIDZOMERMARKT
NATUUR
PLUS
POIESZ
POPPESTIEN
QUIZ
ROGGEGERS
SAUNA
SCHOLEN
SCHOOLSTRAAT
SINGELLAND
STERRENWACHT
TUORREBOUT
VOGELKIJKHUT
WESTERMAR
WETTERSTINS

Oplossing

☐☐☐☐ ☐☐ ☐☐☐ ☐☐☐☐ ☐☐☐☐

Vul in bovenstaande regel de overblijvende letters is

Antwoord

Keep up the good work

Categorie 6 Bestuur en politiek

Vraag 6.1 Aantal inwoners

In 1917 had Burgum 3724 inwoners, in 1946 waren er 2833 inwoners
Wat was hiervan de oorzaak?

Antwoord

In 1930 kreeg buurtschap Bergumerheide e.o. de dorpsstatus met de naam Noordbergum.

Vraag 6.2 De Centrale

a. Wie was het die de bevolking in een protestlied opriep om een lading dynamiet onder het gebouw van het PEB aan de Burgumermar te plaatsen?
b. Wie heeft destijds belooft dat de PEB centrale er maximaal 30 jaar zou staan?

Antwoorden
a. Doede Veeman
b. Waarschijnlijk een mondelinge toezegging en door wie weet niemand. (geen antwoord is ook goed.)

Vraag 6.3 Wie zijn deze burgervaders?

Wie zijn deze Burgemeesters van Tytsjerksteradiel?
Zet de naam achter de juiste letter.

Hobbe Baerdt van Sminia
J.G.W.H. baron van Sijtzama
jhr.mr. Johan Æmilius Abraham van Panhuys
Sikko Berent Drijber
Johan Bothenius Lohman


a.


b.

c.


d.


e.

Antwoorden

a. Sikko Berent Drijber
b. J.G.W.H. baron van Sijtzama
c. jhr.mr. Johan Æmilius Abraham van Panhuys
d. Hobbe Baerdt van Sminia
e. Johan Bothenius Lohman

Vraag 6.4 Gemeenteraadsverkiezingen Tytsjerksteradiel

a. Welk percentage van de stemmen kreeg het FNP bij de gemeenteraadsverkiezingen van 2014?
b. Welke Burgumer stond 15e op de kieslijst van de PvdA bij de gemeenteraadsverkiezingen van 2018?
c. Welke drie partijen hadden hetzelfde percentage stemmen bij de gemeenteraadsverkiezingen van 2018?
d. Hoeveel geldige stemmen werden er uitgebracht voor de gemeenteraadsverkiezingen van 2014?
e. Uit hoeveel dorpen kwamen de kandidaten op de kieslijst van het CDA bij de gemeenteraadsverkiezingen van 2018?

Antwoord

a. 19,50% (=afgerond)
b. Gerard Hendriksen
c. VVD, PvdA en GroenLinks
d. 14517
e. 13

Toelichting

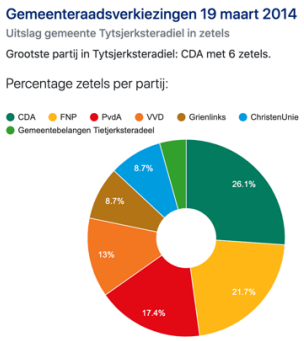

Lijst 3 Partij van de Arbeid (P.v.d.A.)

Nr	Naam	Woonplaats
1	Bruins Slot-Janmaat, E.M. (Ellen) (v)	Gytsjerk
2	Steenland, M.H.G.I. (Menno) (m)	Burgum
3	van der Werf-Bieleveld, S.E. (Saskia) (v)	Oentsjerk
4	van de Hoef, P.J.A. (Peter) (m)	Burgum
5	Kleinhuis-Krol, S. (Sofie) (v)	Earnewâld
6	van Dam, L. (Luit) (m)	Burgum
7	Krijgsman, T.M. (Marijke) (v)	Hurdegaryp
8	Eizema, R.H. (Rinze) (m)	Burgum
9	Agema, A.B. (Aleida) (v)	Gytsjerk
10	Sterenberg, M.J. (Martin) (m)	Burgum
11	Bouius, I.M. (Ids) (m)	Burgum
12	Hiemstra, K. (Klaas) (m)	Burgum
13	van der Meulen, S.I. (Sipke) (m)	Oentsjerk
14	Bastiaans-IJedema, R.M. (Giny) (v)	Tytsjerk
15	Hendriksen, G.J.B.M. (Gerard) (m)	Burgum
16	Dorreboom-Rosenboom, T.M. (Trudi) (v)	Garyp
17	Rijpstra, H. (Houkje) (v)	Gytsjerk

.

a. b.

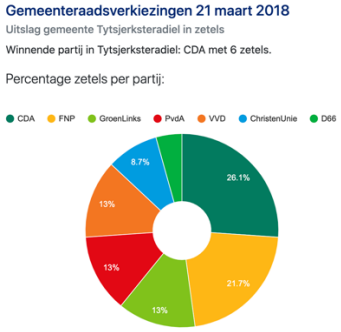

c.

Vraag 6.5 Wethouders uit het verleden

a. Welke wethouder was de drijvende kracht achter het 'Centrumplan' van Burgum?
b. Welke niet-Friestalige wethouder heeft zich beijverd voor de Fryske plaknammen yn Tytsjerksteradiel?
c. Welke wethouder introduceerde de gescheiden glasinzameling onder het motto „Efkes wenne, no kleur bekenne".
d. Welke raadslid/onderwijzer is wethouder geweest en na korte tijd weer raadslid en onderwijzer geworden?
e. Welke wethouder heeft zich ingezet voor de terugkeer van het Skûtsjesilen op de Burgumermar?

Geef bij alle vragen van alle wethouders zowel de voor- als achternaam.

Antwoorden

a. Albert Sibma
b. Evert Castelein
c. Julius van der Werf
d. Wiebe Postma
e. Doeke Fokkema

Vraag 6.6 Kiesdistrict Tietjerksteradeel

a. Welke belangrijke markante republikein werd door kiesdistrict Tietjerksteradeel in de tweede kamer gekozen?
b. Met welk object houden wij deze belangrijke gebeurtenis levend in Tytsjerksteradiel?
c. Hij werd niet herkozen, door wie werd hij in dit kiesdistrict verslagen?
d. Waar was de overwinnaar de grondlegger van?
e. Hoe heeft de gemeente Tytsjerksteradiel deze laatste man herdacht?

Antwoorden

a. Pieter Jelles Troelstra (in 1897)
b. De houten broek (Spreekgestoelte van PJ Troelstra)

c. Aritius Sybrandus (Syb) Talma (in 1901)
d. Sociale wetgeving
e. Borstbeeld geplaatst links voor het gemeentehuis

Vraag 6.7 Ons kent ons

Wat weten jullie over de organisatoren van de Burgumer Doarpskwis?
Hieronder zie je alle foto's van de leden van de organisatie. Koppel ze aan de juiste rebus

1.

2.

3.

4.

5.

6.

7.

8.

9.

a. p+🐁m=r

b. 🐈o=e+💍-ng+k+💶y=s

c. 🚪-ur 🖥-t+r+🔪m=i

d. 📗e=s+🕴-n

e. e=d+j a=s+ -t

f. m=w+t+ -m

g. m=s+ -n

h. s+ -az+ r=n+a

i. -jd+ i=m

h. Wie van deze 4 organisatoren wonen niet (meer) in Burgum?

Antwoorden

a. 8
b. 5
c. 6
d. 7
e. 4
f. 1
g. 9
h. 3
i. 2
j. Didi, Gerard, Simon en Yannick
ofwel de nummers 5-6-7-9

Vraag 6.8 Ben jij van de partij?

Welke partij van Tytsjerksteradiel hoort hierbij?

a.

b.

c.

d.

e.

Antwoorden

a. Groen Links (Berber van Zandbergen)
b. CDA (Age Kramer)
c. VVD (Dineke Wagenaar)
d. BVNL (Nynke Koopmans)
e. D66 (Erwin Duursma)

Vraag 6.9 Verbanden leggen

Puzzeltijd! Welke 5 woorden zoeken wij?

GROND	HOKJE	LID	ARBO	RAAD
HUIS	LIJST	COALITIE	TWEEDE	REGENBOOG
BOEK	VRAGEN	KAS	BILJET	RARITEITEN
WIJZER	TYTSJERKSTERADIEL	LEDEN	HOUDER	MINISTERIE

Antwoorden

a. Wet (grond, arbo, boek, houder)
b. Stem (hokje, lijst, biljet, wijzer)
c. Kamer (lid, tweede, vragen, leden)
d. Gemeente (raad, huis, kas, Tytsjerksteradiel)
e. Kabinet (coalitie, regenboog, rariteiten, ministerie)

Vraag 6.10 Laat je stem horen

Wie van de onderstaande partijen is in 2022 de derde partij van Tytsjerksteradiel geworden?

a. b. c. d. e.

Antwoord

Geen één
Toelichting de derde partij was BV NL (Belang van Nederland i.p.v. Boeren voor Nederland).

Categorie 7 Entertainment muziek tv

Opdracht 7.1 Familie Flodder

Beeldt met 8 personen zo goed mogelijk de familiefoto van de familie Flodder uit. Maak hiervan een videoclip van minimaal 1 en maximaal 2 minuten.
Upload dit filmpje voor 23:30 uur naar burgumer.doarpskwis@gmail.com

Vermeld teamnaam en teamnummer.

Vraag 7.2 Raad de plaat

Hoeveel mensen ken jij die niet van muziek houden? Waarschijnlijk niet zo heel veel. In vrijwel alle culturen maken mensen gebruik van muziek. Muziek om op te dansen, om in slaap te vallen, om je liefde of verdriet in uit te drukken…

Maar wat we echt willen weten, is de titel van het lied waarvan je hieronder een deel ziet.



Antwoord
Wêr bisto (Twarres)

Vraag 7.3 Mag ik deze dans van u?

Welke dans wordt hieronder schematisch weergegeven? Oftewel zet een goed muziekje op en voetjes van de vloer!

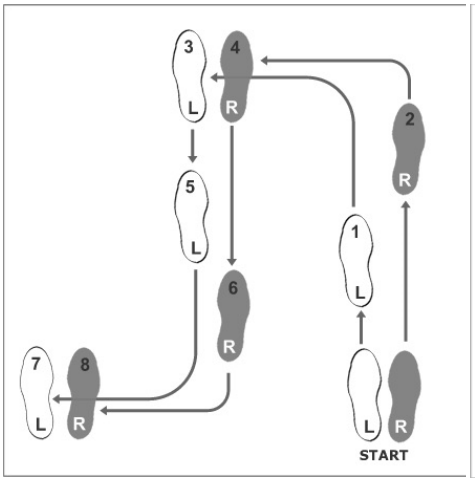

a.

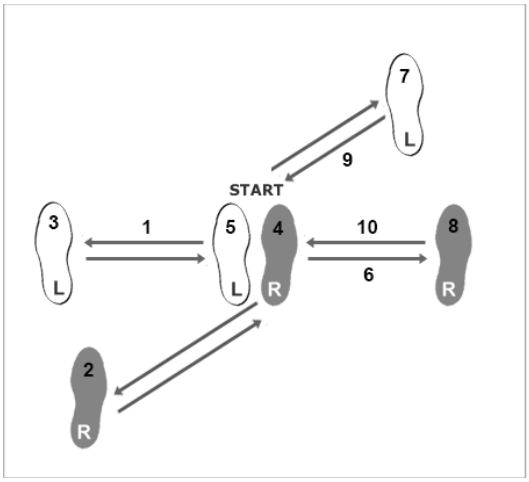

b.

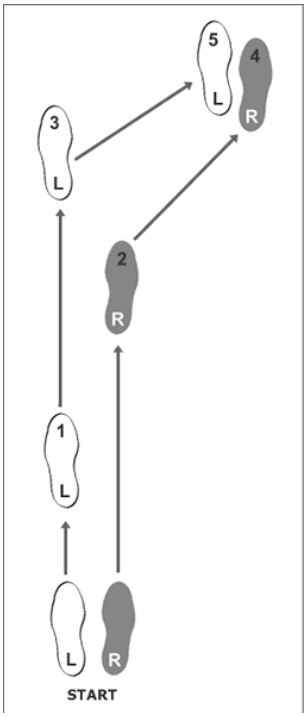

c.

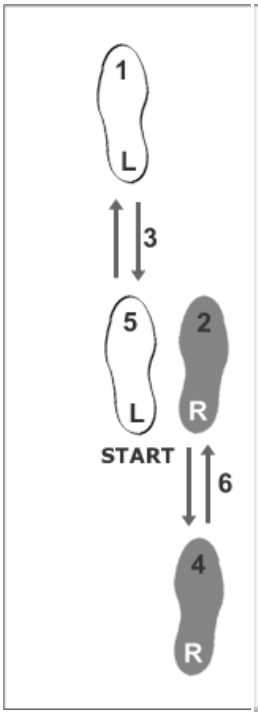

d.

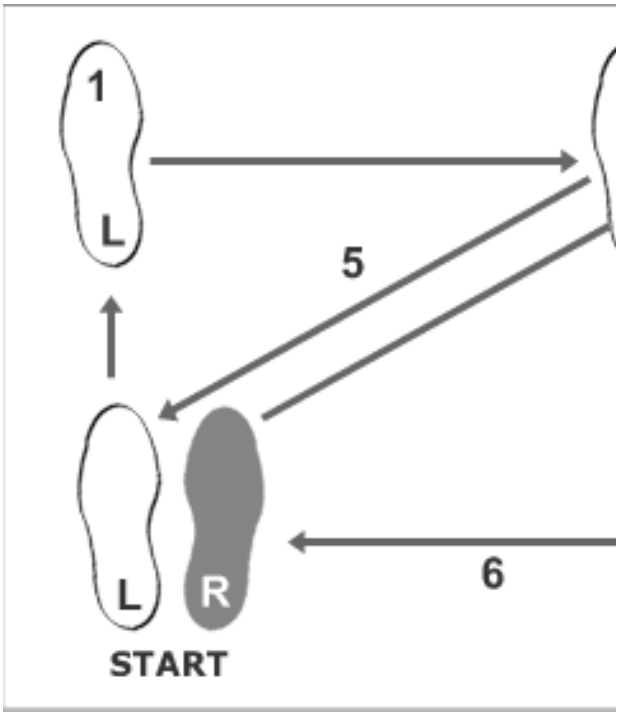

e.

Antwoorden

a. Foxtrot / Quick step
b. Cha Cha Cha
c. Tango
d. Salsa
e. Rumba

Vraag 7.4 De BM'er zeilboot

a. Van welke houtsoort werd het ontwerp "De vuurrode Rakel" van Hendrik Bulthuis gebouwd?
b. Welke landelijk ereteken ontving Hendrik Bulthuis in 1941?
c. De hoeveelste Nederlander was Hendrik Bulthuis die dit ereteken kreeg?
d. Ook in Suriname voeren BM'ers. Waar of niet waar?
e. Welke Burgumer won de Sneekweek in de 60er jaren, twee keer?

Antwoorden

a. Wilgenhout
b. Lucassen-penning
c. De tweede Nederlander
d. Waar
e. Klaas R. Henstra

Vraag 7.5 Wat seist?!

Hieronder staan 5 delen van songteksten die we hebben vertaald naar het Fries. We zoeken de titel en de uitvoerende artiest van deze hits.

a. Juster liken al myn problemen sa fier fuort
No liket it oft se altyd bliuwe sille
Oh, ik leau yn juster

b. Tsjuster wie de strjitte
Op wei nei it plein
In taksy, it is te let
It is foarby
Wa wol der bloed op de efterbank
Fan de wurklikheid

c. As ik my swak fiel
En myn pine giet mar ien kant út
Dan sjoch ik omheech
En ik wit dat ik altyd segene wêze sil mei leafde
En wylst it gefoel tanimt
Ademt sy moed myn lichem yn
En as de leafde dea is
Dan hâld ik, yn plak dêrfan, fan ingelen

d. Dit ferske is foar in oar net te begripen
Gjin minske wit watsto mei dy stjer bedoelst
Do moatst dy minsken net sa ûnderskatte
't is gewoan hiel leaf bedoeld, dat hasto bêst betocht
Sjong it dan noch in kear foar my

e. Do soest sizze kinne dat ik in dreamer bin
mar ik bin net de iennige
Ik hoopje op in dei datsto wer by ús komme silst
En de wrâld sil in ienheid wêze

Antwoorden

a. Yesterday – The Beatles
b. Zwart wit – Frank Boeijen
d. Angels – Robbie Williams
d. Ik zie een ster – Mouth & Macneal
e. Imagine – John Lennon

Vraag 7.6 Colour blocking

Colour blocking, een echte interieurtrend die vrolijkheid en lef uitstraalt: het gebruik van 2 of meer felle kleuren naast elkaar in grote vlakken om zo contrasten te creëren. Wij zijn hier ook mee aan de slag gegaan, alleen dan net even anders. Herken jij wie deze kleurrijke blokken zijn?



a.

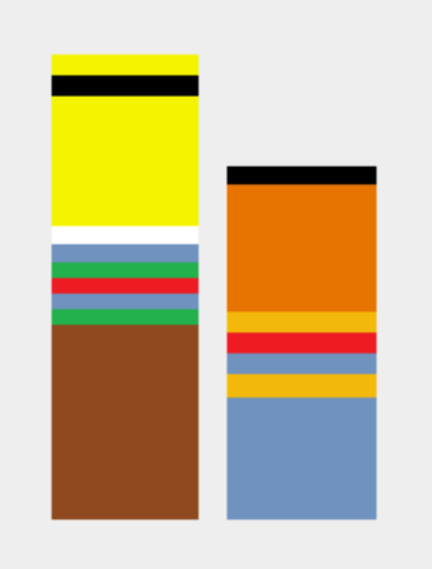

b.



c.

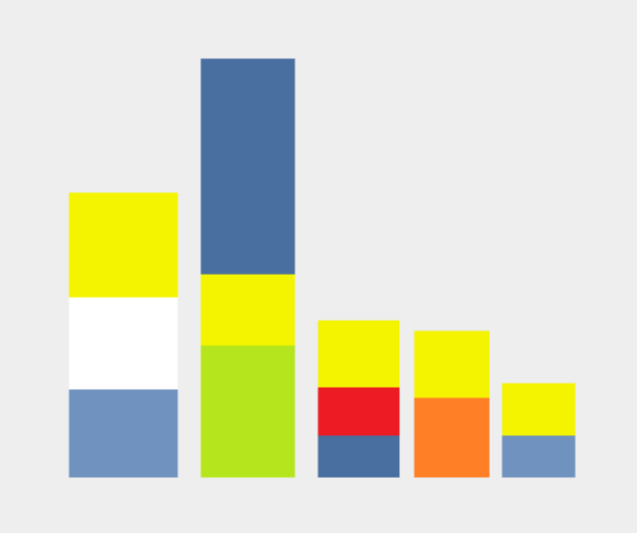

d.



e.

Antwoorden

a. Suske en Wiske
b. Bert en Ernie
c. DirkJan
d. The Simpsons (Homer, Marge, Bart, Lisa en Maggie)
e. SpongeBob SquarePants

Vraag 7.7 Tromgeroffel

Veel mensen uit Burgum en omstreken kennen Drumband de Marko's. Dit is een enthousiaste drumband met Twirling en Color Guard-groepen die regelmatig optredens verzorgen in de regio en daarbuiten.

a. Waar komt de naam 'de Marko's' vandaan?
c. De Marko's werden opgericht binnen een andere muziekvereniging. Welke is dit?

Antwoorden
a. Samenvoeging van de namen van de oprichters: Harm en Okje
b. Muziekvereniging Hallelujah!
d.

Vraag 7.8 Bordspellen

Hoeveel speelvelden hebben de volgende bordspellen gezamenlijk?
Dammen
Schaken
Mens erger je niet
Ganzenbord
Backgammon
Halma (stervorm)

Antwoord
a. 444 of 454 of 504

Toelichting
De stervormige Halma speelborden zijn er in verschillende uitvoeringen de driehoeken komen in wisselende aantallen voor met 10 of 15 velden per kleur.
Halma uitvoering 3 x 10 +3 x 15 heeft 121 velden
Uitvoering 4 x 10 + 2 x 15 heeft 131 velden
Uitvoering 6 x 10 heeft 121 velden
Uitvoering 6 x 15 heeft 181 velden

Dammen	100
Schaken	64
Mens erger je niet	72
Ganzenbord	63
Backgammon	24
Halma (stervorm)	121of 131 of 181
Totaal	444 of 454 of 504

Vraag 7.9 Skûtsje

a. Wat was de naam van het skûtsje wat Burgumer Auke Boskma kocht?
b. Wat was de reden om de naam te veranderen?
c. Wat is de naam van de huidige skipper en waar ligt het skûtsje?
d. Wanneer deed het voor het eerst mee aan de IFKS?
e. Welk gezegde hoort bij het inhalen van een zeilboot?

Antwoorden
a. De Drie Gebroeders
b. Twee dochters
c. Jelle Bekkema, Aldegea (SM)
e. 1992
f. De loef afsteken

Vraag 7.10 V.V.Bergum

a. Wat is de achternaam van de speler die als bijnaam 'Gento' had?
b. Welke penningmeester woonde jarenlang op de Burgumer Daam?
c. Hoe heette de eerste Duitse speler die een tijdje in het eerste elftal van V.V.Bergum speelde?
d. V.V.Bergum had twee ereleden uit hetzelfde gezin. Wie waren dat?
e. Wie repareerde vroeger de lekke binnenballen van de V.V.Bergum?

Antwoorden
a. Procee
b. H. De Haan
c. B. Tempel
d. T. en S. Bosma:

e. H. Boelens

Categorie 8 Burgumers

Vraag 8.1 Burgemeesters van Tytsjerksteradiel

a. Hoe heet de burgemeester op de foto?
b. Wie was de langstzittende burgemeester?
c. Welke naam draagt het huis waar de langstzittende burgemeester woonde?
d. Wie was de kortst zittende burgemeester
e. Hoeveel straten in Burgum zijn vernoemd naar een burgemeester van de gemeente Tytsjerksteradiel ?

Antwoorden

a. Walle Melis Oppedijk van Veen
b. Drijber
c. XXXXX
d. Wilma Mansveld
e. geen een, dus 0

Toelichting
c. Antwoord c is niet te geven, woning van Drijber niet te achterhalen, foutje bedankt!
antwoord e:in Burgum zijn
4 lanen vernoemd: Burgemeester van Sytzamalaan
Burgemeester van Panhuyslaan
Burgemeester Bothenius Lohmanlaan
Burgemeester Steenhuisenlaan
2 wegen vernoemd: Mr.W.M. Oppedijk van Veenweg
H.W.K. Ridder Huyssen van Kattendijkeweg
Conclusie, er zijn geen (dus 0) straten vernoemd.

Vraag 8.2 Vliegende evangelist

a. Wie werd in Burgum "De vliegende evangelist" genoemd?
b. In welke boerderij hield hij zijn bijeenkomsten?

Antwoorden
a. Pater Edward Doesburg
b. In de boerderij van de weduwe Baukje Oser-Blom, gelegen op de plaats waar nu het Ds. J.Kooiplein ligt

Vraag 8.3 Beroepen in 1928

a. Wat was het beroep van H. de Groot en J. De Groot uit Burgum?
b. Wie was in deze periode typograaf in Burgum?
c. Wie was in deze periode horlogemaker in Burgum?
d. Wie was in deze periode chef-politie in Burgum?
e. Wie was in deze periode de colporteur in Burgum?

Antwoorden
a. modist
b. S. van der Molen
c. L. Wijma
d. R. Kröttje
e. G. Amman
Toelichting
Antwoorden zijn te vinden in adreslijst burgum 1928

http://adresboek1928.tresoar.nl

Vraag 8.4 Oorlog '40-'45

a. Door wie is deze tekening gemaakt?
b. Wie heeft over deze gebeurtenis een volkslied gemaakt?
c. Wat zei de bode toen de overvallers het gemeentehuis binnen stormden?
d. Welke Burgumer koerierster is bevrijd bij de overval op de Leeuwarder strafgevangenis (Blokhuispoort)?
e. Op welke datum is Burgum bevrijd?

Antwoorden
a. M. Steendam
b. Jabik Smid
c. 'Fuotten fije'!
d. Klaske Douma
e. 15 april 1945

a. In een van de boeken van Burgum staat vermeld dat de tekenaar onbekend is.

Vraag 8.5 Trouwerij

In het verzamelalbum "Burgum in Beeld" (samengesteld door het OBSERVEUM in opdracht van PLUS Wolters) staat een foto van een trouwerij bij het Van Sminiahuis.

a. Wie is de vrouw midden op de weg, die de trouwstoet uitgeleide doet?
b. Wat was het beroep van haar vader?
c. Met wie was zij getrouwd?
d. Hoeveel kinderen kreeg het echtpaar?
e. Doordat ze onzeker over zichzelf was, deed ze een beroep op een handschrift lezeres. Wie was deze grafoloog?

Antwoorden
a. Griet Zigtema
b. Veldwachter
c. Hero ter Cock
d. Niet één, maar ze hadden wel een aangenomen kind
e. G. de Waard
f.

Vraag 8.6 Wereldkampioen

a. Welke inwoner van Burgum werd wereldkampioen in Helsinki?
b. In welk jaar was dat?
c. Wat was toen de leeftijd van de winnaar?
d. Welk wereldkampioenschap was dit?
e. Welk kampioenschap won hij/zij twee jaar eerder in dezelfde tak van sport?

Antwoorden
a. Siebe Hiemstra
b. 1965
c. 18 jaar
d. Wereldkampioen accordeon junioren
e. It Frysk kampioenskip

Vraag 8.7 Streekproducten

Bij welke (Noard-)Burgumer(s) kun je het volgende hoofdproduct uit eigen "kweek" kopen?
a. Kalfsvlees
b. Verse melk
c. Blauwe bessen
d. Jam
e. Aardbeien

Antwoorden

a.	Annie van Dam	Zomerschuur
b.	Floris en Bonnie Andringa	Melktap Burgum
c.	Klaas en Henk Vonk	Sparkberry
d.	Haike van der Velde	Kerklaan, Burgum
e.	Agatha Miedema	Simmerfruit

Vraag 8.8 De voetballer
a. Welke speler heeft bij Feyenoord gespeeld met de bijnaam Koko?
b. Bij welke 4 clubs heeft onze 'Koko' in het Nederlands betaald voetbal heeft hij gespeeld?
c. In welk jaartal was zijn debuut in het Nederlands betaald voetbal?
d. Is hij ooit kampioen geworden in de Eredivisie?
e. Welke positie bespeelde hij op het voetbalveld?

Antwoorden
a. André Hoekstra
b. SC Cambuur, FC Groningen, PEC Zwolle, SC Heerenveen
c. 1969
d. Nee
e. Aanvaller

Vraag 8.9 Kunstroute

Er zijn veel kunstwerken in Burgum, maar waar staan ze?
Hieronder staat een omschrijving, maar bij welk kunstobject op de foto hoort deze omschrijving?
Zet het juiste cijfer van de omschrijving achter de foto en noteer de naam van het kunstwerk en in welke straat deze staat.

Omschrijving:
1. Zij is al meer dan 50 jaar een toonbeeld van rust en stilte.
2. Hier kun je alleen op sokken heen.
3. De "Zangeres zonder naam" zong over de naam van dit beeld.
4. Met welk beroep is Burgum groot geworden?
5. Een gastvrij huis.
6. Het ging hem voor de wind.
7. Laten we vanaf deze plek beginnen.
8. Op deze plek is een gastarbeider gestorven.
9. Dit kunstwerk is moeilijk te vinden omdat het bijna overwoekerd is.
10. Rustend op het water.

Foto:	Nummer omschrijving	Naam kunstobject	Straat:
a.			
b.			

c.			
d.			
e.			
f.			

g.			

h.			
i.			
j.			

Antwoorden:

Foto:	Nr en Naam kunstobject	Straat:
a.	2.(heilige grond)	Koumarwei
b.	5.(iepen doar)	Raadhuisweg
c.	6. (Hendrik Bulthuis)	Burgermerdaam
d.	1. (lezend meisje)	Schoolstraat
e.	9.(Éntente Florale)	Raadhuisweg
f.	8. (poepekrûs)	Zomerweg

g.	7. (markeerpunt)	Schoolstraat
h.	3. (moeder met kind)	Prinses Irenestraat
i.	10. (zitgolf)	Markt
j.	4. (de túnker)	Schoolstraat

Vraag 8.10 Echt Hema

a. Welke Burgumer had dezelfde (bij-)naam als dit gebakje?
b. Hoe heet de bovenste laag van dit gebakje?
c. Hoe noemen ze dit gebakje in o.a. Noorwegen, Amerika, Polen en Italie?
d. Waarom werd Charles Sherwood Stratton in verband gebracht met dit gebakje?
e. Sinds welk jaar verkoopt de Hema deze lekkernij?

Antwoorden
a. Jan Hannema
b. Glazuur
c. Napoleon
d. Het gebakje kreeg zijn bijnaam
e. 1932

Toelichting:
a. De Burgumer Jan Hannema was een kleine man, beroep circusartiest, heeft hier gewerkt en is in Burgum begraven.
b. Een TomPouce is bedekt met een laag glazuur
c. In Noorwegen, Amerika, Polen en Italie heet dit gebakje geen Tompouce maar Napoleon
d. Het gebakje is eigenlijk vernoemd naar Tom Thump (Charles Sherwood Stratton). Dat was ook een zeer kleine man en circusartiest uit Amerika. De Franse vertaling is Tom Pouce.
e. 1932

Categorie 9 Varia

Opdracht 9.1

Knoop van het meegeleverde koord een armband zoals weergegeven op de foto. De ingeleverde armband wordt beoordeeld op gelijkenis met foto en afwerking.

Antwoorden
Deze armband is een zogenaamde turkse knoop.
Als je dat eenmaal weet, kun je op internet vinden hoe je die moet knopen.

Opdracht 9.2 Memory

In de opdrachtenbundel treft u 2 halve foto's van een gebouw, monument of plek in Burgum aan.
Aan het eind van de avond moet u in de bundel twee bij elkaar horende halve foto's inleveren die samen een complete foto vormen.
Iedere foto zit maar een keer in het spel.
Op de markt voor Primera kunt u vanaf 20:30 uur met andere deelnemers halve foto's ruilen, net zolang tot de laatste deelnemer een complete foto heeft.

Vraag 9.3 Stemherkenning

Los de sudoku op. De gearceerde getallen vormen de overgebleven nummers van een telefoonnummer. Je moet de getallen kiezen van links naar recht en van boven naar beneden. Bel dit nummer, wie hoor je hier?

6	4							
				8				7
2			6		5			3
		4				7		6
5	9						2	4
					2	9		
3		1		9			4	5
	8			5			9	2
					8	3		

Telefoonnummer: 0 - - 0 - - - 0 - -

Antwoord
Telefoonnummer: 0620743076
Stem: Pietsje fan Gerrit (Griet Wiersma)

6	4	8	7	2	3	5	1	9
1	3	5	9	8	4	2	6	7
2	7	9	6	1	5	4	8	3
8	2	4	1	3	9	7	5	6
5	9	3	8	7	6	1	2	4
7	1	6	5	4	2	9	3	8
3	6	1	2	9	7	8	4	5
4	8	7	3	5	1	6	9	2
9	5	2	4	6	8	3	7	1

Vraag 9.4 Vermoorde personen

In de 18e t/m de 20ste eeuw is er in 6 verschillende jaren iemand vermoord gevonden, langs of vlakbij De Zomerweg in Tytsjerksteradiel.
Noem 5 van de 6 jaartallen, begin met het oudste jaartal.

Antwoorden

1783 – 1899 – 1919 – 1930 - 1943 - 1944

Toelichting:Bron: Delpher.nl of boek Tietjerksteradeel 1940/1945

Vraag 9.5 Geografie

In welk werelddeel is welke foto gemaakt?
U kunt kiezen uit Afrika - Azië - Europa - Noord Amerika - Oceanië - Zuid Amerika

Antwoorden

a.	foto 1 Europa	Geiranger fjord, Noorwegen
b.	foto 2 Zuid-Amerika	Sacred Valley, Peru
c.	foto 3 Azië	Miyajima, Japan

d.	foto 4 Oceanië	Twelve Apostles, Australië
e.	foto 5 Afrika	Sossusvlei, Namibië
f.	foto 6 Azië	Tempel in Phnom Penh, Cambodja
g.	foto 7 Europa	Rome, Italië
h.	foto 8 Noord-Amerika	Jefferson Memorial, Washington DC, VS
i.	foto 9 Zuid-Amerika	Rio de Janeiro, Brazilië
j.	foto 10 Afrika	Afrikaanse boom,Vachellia tortilis

Vraag 9.6 Omhoog stromen

Bij extreem lage temperaturen kunnen vloeistoffen omhoog stromen.
Er is dan bijna geen wrijving meer tussen de vloeistofdeeltjes.
a. Bij welke stof werd dat voor het eerst ontdekt?

Antwoord
a. Helium

Toelichting
Helium wordt supervloeibaar als het afkoelt tot onder de -270 graden Celsius.
Het heet dan helium II.
Het is dan niet meer stroperig en de warmtegeleiding is groot.
Dat betekent dat dit vloeibare helium niet gaat borrelen en koken als het opwarmt. Er ontstaan geen gasbelletjes. De vloeistof voert de warmte af naar het oppervlak waar het voor verdamping zorgt.
Als je "gewoon" vloeibaar helium in een beker doet en afkoelt tot onder de -270 graden Celsius gebeurt er iets geks.
Een dun, bijna onzichtbaar laag van het supervloeibare helium dat dan ontstaat kruipt spontaan en zelfstandig langs de randen van de beker omhoog.

Vraag 9.7 Met stip

Wat geven de rode stippen op de kaart aan?

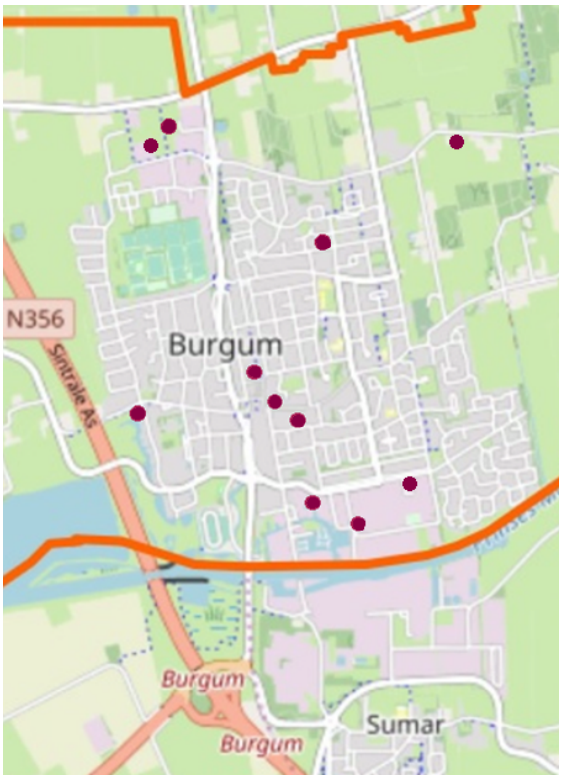

Antwoord
Hier hangen AED's

Vraag 9.8 Spaart u ook zegeltjes?

Bijna iedere winkel of supermarkt doet er wel iets mee, spaarzegels. In te leveren voor een pannenset, handdoeken, geld en noem het maar op!
Trek je keukenla eens open en ga opzoek naar onderstaande zegeltjes en plak ze op.

spaarzegel Poiesz	waardepunten Douwe Egberts

Vraag 9.9 Willekeurige woorden

Wat hebben onderstaande woorden met elkaar gemeen?

Stewardess
Bastaard
Terras
Aardgasreserves

Antwoord

Al deze woorden kan je op een QWERTY toetsenbord typen met alleen de linkerhand (10-vingersysteem)

Vraag 9.10 Flashback

Tijdens het ophalen van het quizboek stond er een muzikant een lied te spelen.
a. Hoe heet deze muzikant?
b. Welk instrument bespeelde hij?
c. Welk lied speelde hij?
d. Welke kleur schoenen droeg hij?
e. Welke bijzondere muziekgroep heeft hij opgericht?

Antwoorden:
a. Keimpe van der Meer
b. Accordeon
c. Gloria (in excelsis deo)
d. Grijze schoenen
e. Pandoer

Categorie 10 Ondernemend Burgum

Vraag 10.1 Ondernemingen

Welke Burgumer ondernemingen passen bij onderstaande gegevens?

	Oprichtingsjaar	Voornaam oprichter	Zijn/haar leeftijd bij oprichting	Naam van de onderneming
a.	1938	Sybe	24	
b.	1964	Auke	26	
c.	1925	Wouter	Onbekend	
d.	1931	Hendrik	23	
e.	1934	Andries	26	

Antwoorden:
a. De Vries Wonen / Fa. de Vries Schilders
b. Weekblad Actief
c. Grafkistenfabriek Hoogland

d. Expert Meijer
e. Beerda Mode

Vraag 10-2 Oogcontact

Er zijn veel verschillende soorten ogen en elke vorm geeft een eigen karakter weer. De ogen zijn de spiegel van de ziel! Ervaringen, emoties en passie kun je hieruit herleiden. We hebben wat Burgumer ondernemende ogen op een rij gezet. Bij wie horen ze en welke onderneming runnen ze?

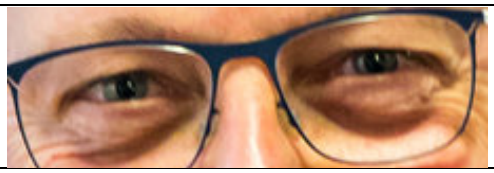	
a.	f.
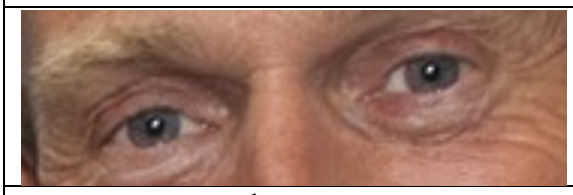	
b.	g.
	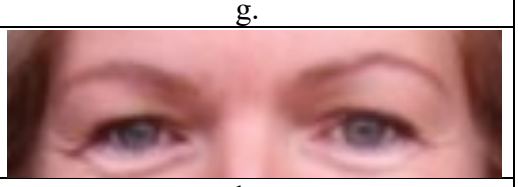
c.	h.
d.	i.
e.	j.

Antwoorden

a. Jelle Brinksma – Brinksma Optiek
b. Sybe de Vries – De Vries Wonen
c. Annemarie Freiberger – Optiek Freiberger
d. Franke Atsma – Boekhandel Burgum
e. Anco van der Vliet - &Uzelf
f. Ymkje de Vries – Kies Koers
g. Ellen Wester – Westersalon
h. Sjoerdje de Haan – It stee fan ofskie
i. Brent de Haan – Bouwonderneming Brent de Haan
j. Geesje Duursma – de Pleats

Vraag 10.3 Aventoer

a. In welk jaar is Aventoer geopend?
b. Op hoeveel meter bevindt zich het hoogste attractiepunt in het park?
c. Wat is het bijzondere aan het midgetgolf bij Aventoer?
d. Hoe heet het spel waarbij je heel behendig door een laserstralenparcours gaat en die stralen je lichaam niet mogen raken?
e. Welke service wordt op het parkeerterrein achter de gebouwen van Aventoer aangeboden?

Antwoorden
a. 2014
b. 15 (meter)
c. Glow in the dark/is in blacklight
d. Mission Possible (NIET Impossible!!)
e. Openbare laadpalen voor EV's

Vraag 10.4 De Vries-Wonen

a. De hoeveelste generatie runt de onderneming in 2022?
b. In welk jaar startte de winkelverkoop?
c. Wat was het beroep van de oprichter?
d. Wat was de voornaam van de oprichter?
e. Plak op deze pagina, in het vierkant, een zelfgemaakte foto waarop een teamlid poseert voor een herkenbaar deel van de gevel van het winkelpand van De Vries Wonen. U moet hiervoor wel een printer opzoeken!

Antwoorden
a. 3e
b. 1945
c. Schilder
d. Sybe
e.OPDRACHT!

Vraag 10.5 De Pleats

a. Sinds welk jaar is de familie Duursma uitbater van De Pleats?
b. Hoeveel restaurantzalen en vergaderkamers heeft De Pleats?
c. Van welke horeca of vakorganisatie is De Pleats in 2022 lid?
d. Wat betaal je bij De Pleats voor het opladen van je e-bike?
e. En wat voor het opladen van je elektrische auto?

Antwoorden
a. 1997
b. 6
c. Horeca Nederland
d. Niets
e. Niets, kan daar niet (instinker!)

Vraag 10.6 PLUS Wolters

a. Wat is het postadres van PLUS Wolters?
b. Sinds wanner (maand & jaar) is PLUS Wolters op dit adres gevestigd?
c. Van tijd tot tijd worden winkels opnieuw ingericht. Van wanneer (maand & jaar) is de huidige inrichting?
d. Welke andere onderneming(en) vinden onderdak bij PLUS Wolters?
e. Sinds 2001 is de winkelnaam PLUS. Geef in oplopende tijdsvolgorde de 3 voorgaande winkelnamen van supermarkt PLUS. (dus niet van voorgangers in dit pand)

Antwoorden
a. Markt 53, 9351JR BURGUM
b. September 2016
c. November 2020
d. geen
e. Sperwer/ 4=6 / Plusmarkt

Vraag 10.7 Afkortingen

Als mensen of organisaties zich verenigen wordt er een naam bedacht en vaak afgekort. OHRA is een bekende verzekeringsmaatschappij maar de betekenis is velen onbekend. OHRA staat voor: Onderlinge ziektekostenverzekeringsfonds van Hogere Rijks Ambtenaren

Geef de volledige naam in de juiste spelling van onderstaande afkortingen
a. HIMBO
b. BAK
c. SBB
d. VIZ
e. OPA

Antwoorden
a. Handel – Industrie – Middenstand - Bergum & Omstreken
b. Burgumer Activiteiten Kommissie
c. Stifting Burgumer Barren

d. Vrouwen In Zaken
e. Oud Papier Actie

Vraag 10.8 Patatje mét

Niets is zo lekker als gefrituurde patat of moet ik zeggen friet? Op verschillende plekken in Burgum kun je snacken, zo ook op onderstaande locatie.

a. Welke snackbar zie je hier?
b. Wie runnen deze snackbar?
c. Welke snackbar zat er hiervoor?
d. En daarvoor?
e. Waar is een frikandel het goedkoopst? Bij de afgebeelde snackbar of bij de snackbar van de vorige eigenaar?

Antwoorden
a. De Frieterie
b. Elke de Ruijter en Thomas Douwes
c. Snackhûs Burgum
d. Snackbar Mies
e. Bij Snackhûs Burgum ofwel de vorige eigenaar (€2,10)
De Frieterie (€2,30)

Vraag 10.9 Heb je wel eens omhooggekeken?

Onderstaand zie je foto's van gevels of delen daarvan.

Vul in welke winkel of onderneming in dat pand huist.

a.

b.

c.

d.

e.

Antwoorden

a. Brinksma Optiek
b. 't Roodhert
c. Makelaardij Zantman
d. De Pleats
e. Tandarts De Groot

Vraag 10.10 Visie

a. Wat betekent B2040?
b. Wat is het doel van B2040?
c. Hoe karakteriseert de groep zichzelf?
d. Hoeveel speerpunten zijn er gekozen voor fase 2 van B2040 die doorgaat in 2023?
e. Wat is het eerste initiatief waarbij B2040 gebruik heeft gemaakt van het Iepen Podium van de gemeenteraad?

Antwoorden

a. Burgum 2040
b. Toekomstvisie maken van Burgum 2040 en Burgum vitaal houden.
c. Als een rebelse club
d. 10
e. De komst van een pontje (naar het Burgumermeer).